INSTITUCIÓN EDUCATIVA SAN ISIDORO

SEDE ISAÍAS OLIVAR



GRADO: Segundo

DOCENTE: Nancy Aguirre

MATERIA: Matemáticas

PERÍODO: Tercero

FECHA: 14 de agosto de 2026

TEMA: REPASO DE TABLAS DE MULTIPLICAR DEL 2 AL 6

1. Escribe los números que faltan en la serie.

TABLA DEL 2

• Escribe los números de 2 en 2.

2 — 4 — ___ — ___ — ___ — ___ — ___

• Completa la tabla del 2.

2 x 1 = ___
2 x 2 = ___
2 x 3 = ___
2 x 4 = ___
2 x 5 = ___
2 x 6 = ___
2 x 7 = ___
2 x 8 = ___
2 x 9 = ___
2 x 10 = ___

• Colorea los manzanos con resultados de la tabla del 2.



TABLA DEL 3

• Escribe los números de 3 en 3.

3 — 6 — ___ — ___ — ___ — ___ — ___

• Completa la tabla del 3.

3 x 1 = ___
3 x 2 = ___
3 x 3 = ___
3 x 4 = ___
3 x 5 = ___
3 x 6 = ___
3 x 7 = ___
3 x 8 = ___
3 x 9 = ___
3 x 10 = ___

• Colorea los manzanos con resultados de la tabla del 3.



TABLA DEL 4

• Escribe los números de 4 en 4.

4 — 8 — ___ — ___ — ___ — ___ — ___

• Completa la tabla del 4.

4 x 1 = ___
4 x 2 = ___
4 x 3 = ___
4 x 4 = ___
4 x 5 = ___
4 x 6 = ___
4 x 7 = ___
4 x 8 = ___
4 x 9 = ___
4 x 10 = ___

• Colorea los manzanos con resultados de la tabla del 4.



TABLA DEL 5

• Escribe los números de 5 en 5.

5 — 10 — ___ — ___ — ___ — ___ — ___

• Completa la tabla del 5.

5 x 1 = ___
5 x 2 = ___
5 x 3 = ___
5 x 4 = ___
5 x 5 = ___
5 x 6 = ___
5 x 7 = ___
5 x 8 = ___
5 x 9 = ___
2 x 10 = ___

• Colorea los manzanos con resultados de la tabla del 5.



TABLA DEL 6

• Escribe los números de 6 en 6.

6 — 12 — ___ — ___ — ___ — ___ — ___

• Completa la tabla del 6.

6 x 1 = ___
6 x 2 = ___
6 x 3 = ___
6 x 4 = ___
6 x 5 = ___
6 x 6 = ___
6 x 7 = ___
6 x 8 = ___
6 x 9 = ___
6 x 10 = ___

• Colorea los manzanos con resultados de la tabla del 6.





¡Tú puedes!
Con práctica y esfuerzo aprenderás cada día más.